6

Nombre y apellidos:

Fecha:

Matemáticas 2.º

1 Pablo ha invitado a 175 personas a su fiesta. Si solo han llegado 128, ¿cuántos invitados faltan por llegar?

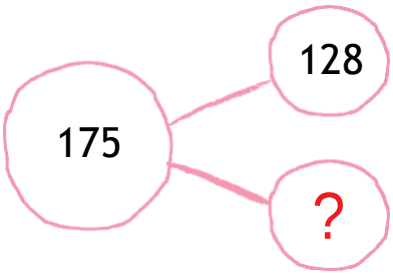

Ha invitado a ☐ personas.

Han llegado _____ invitados.

▶ Faltan ☐ invitados por llegar.

2 Belén quiere comprar una cámara de fotos que cuesta 550 euros. Si tiene ahorrado 435 euros, ¿cuántos euros le faltan?

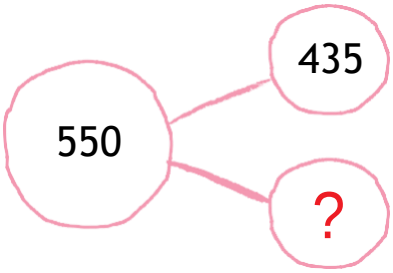

Cuesta ☐ euros.

Tiene ☐ euros.

▶ Le faltan ☐ euros.

3 A una carrera se han apuntado 743 personas. Si han llegado a la meta 561, ¿cuántas personas faltan por llegar?

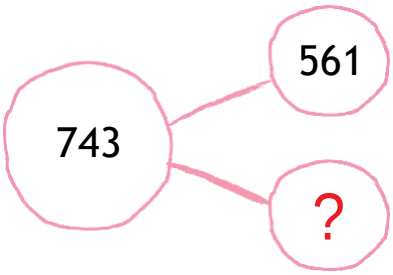

Se han apuntado ☐ personas.

Han llegado _____ personas.

▶ Faltan ☐ personas por llegar.

4 En un tren caben 654 pasajeros. Si solo han montado 482, ¿cuántos pasajeros faltan para completar el tren?

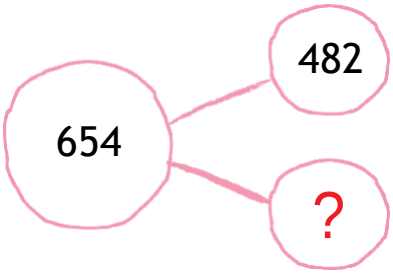

Caben ____ pasajeros.

Han montado ____ pasajeros.

▶ Faltan ____ pasajeros para completar el tren.

5 Carlos tiene 303 cromos. Si ya ha colocado 249 en el álbum, ¿cuántos cromos faltan por colocar?

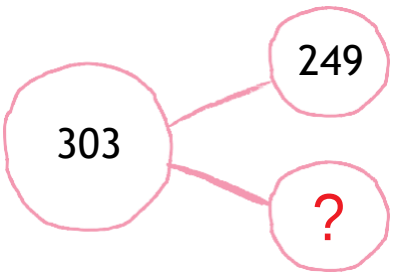

Tiene ____ cromos.

Ha colocado ____ cromos.

▶ Faltan ____ cromos por colocar.

6 En una panadería han horneado 275 barras de pan. Si han vendido 186, ¿cuántos barras faltan por vender?

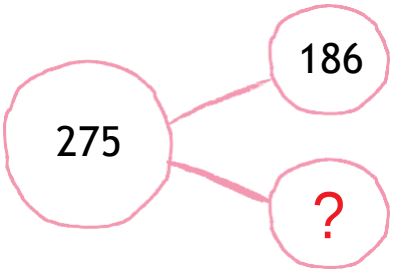

Han horneado ____ barras.

Han vendido _____ barras.

▶ Faltan ____ barras por vender.

7 Observa y encuentra qué tienen en común.

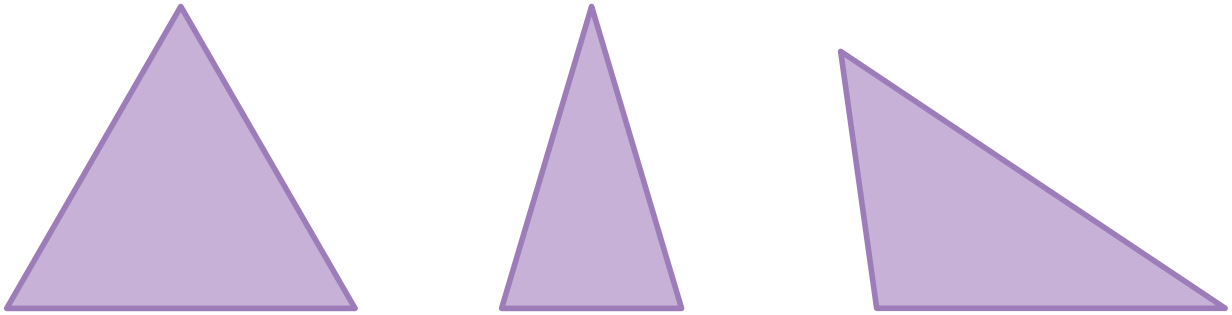

Todas las figuras tienen...

Todas las figuras tienen...



Todas las figuras tienen...

6 Nombre y apellidos: Matemáticas 2.º

5 15 25 35 45 55 65 75 85 95

Todos los números...

11 22 33 44 55 66 77 88 99

Todos los números...

10 20 30 40 50 60 70 80 90

Todos los números...

111 121 131 141 151 161 171 181 191

Todos los números...