10

Nombre y apellidos:

Fecha:

Matemáticas 2.º

1 Inventa y dibuja un problema a partir de esta operación.

$9 + 6$

2 Inventa y dibuja un problema a partir de esta operación.

9×6

3 Inventa y dibuja un problema a partir de esta operación.

$6 + 4$

4 Inventa y dibuja un problema a partir de esta operación.

6×4

5 Piensa y completa.

Coloco 20 monedas en cajas, con el mismo NÚMERO de monedas en cada una.

¿Puede utilizar 2 cajas con 10 monedas en cada una?
Calcula y responde.

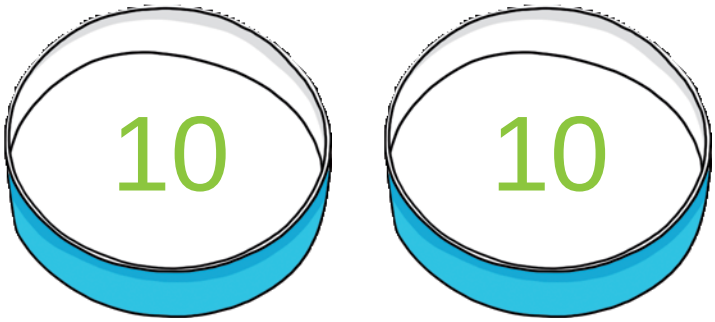

_____ Ò _____ = ☐

☐ Sí se puede, porque 10 Ò 2 son 20.

☐ No se puede, porque 10 Ò 2 no son 20.

¿Puede utilizar 3 cajas con 6 monedas en cada una?
Calcula y responde.

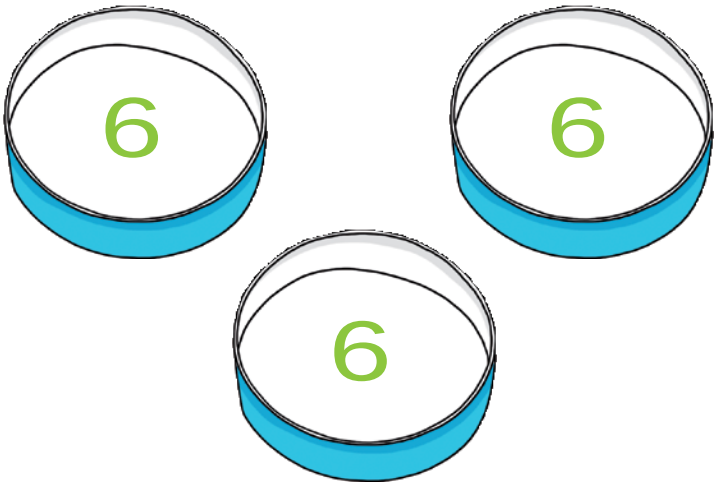

☐ Ò ☐ = ☐

☐ Sí se puede, porque 6 Ò 3 son 20.

☐ No se puede, porque 6 Ò 3 no son 20.

¿Puede utilizar 5 cajas con 4 monedas en cada una?
Calcula y responde.

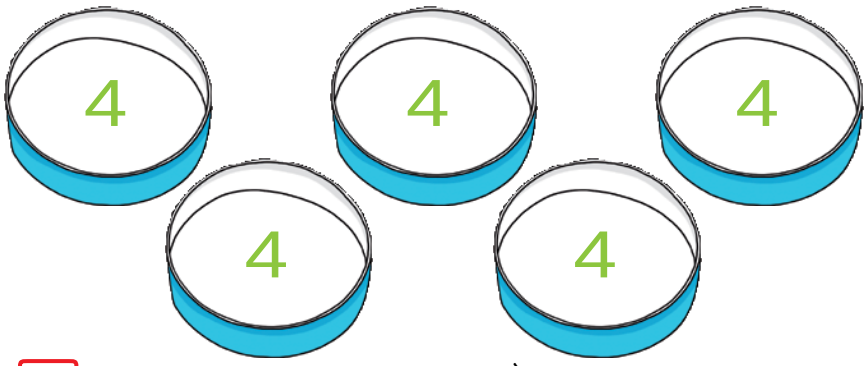

☐ Ò ☐ = ☐

☐ Sí se puede, porque 4 Ò 5 son 20.

☐ No se puede, porque 4 Ò 5 no son 20.

¿Puede utilizar 4 cajas con 5 monedas en cada una?
Calcula y responde.



☐ Ò ☐ = ☐

☐ Sí se puede, porque 5 Ò 4 son 20.

☐ No se puede, porque 5 Ò 4 no son 20.

¿Puede utilizar 2 cajas con 9 monedas en cada una?
Calcula y responde.

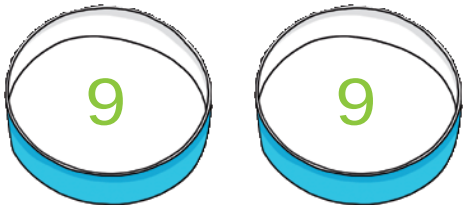

☐ Ò ☐ = ☐

☐ Sí se puede, porque 9 Ò 2 son 20.

☐ No se puede, porque 9 Ò 2 no son 20.